●計算ドリル 5 , 7 のたしかめ

月　日

1 7. 倍数と約数

102〜111

名前

1問10点

学5・Ⅱ

◆ 次の組の数の公倍数(こうばいすう)を，小さい方から順に3つ求めましょう。

① (7，2)　　② (3，5，9)

(　　)　　(　　)

◆ 次の組の数の最小公倍数(さいしょうこうばいすう)を求めましょう。

③ (5，4)　　④ (6，10)

(　　)　　(　　)

⑤ (9，12，18)

(　　)

◆ 次の組の数の公約数(こうやくすう)を，全部求めましょう。

⑥ (6，15)　　⑦ (8，14，32)

(　　)　　(　　)

◆ 次の組の数の最大公約数(さいだいこうやくすう)を求めましょう。

⑧ (5，10)　　⑨ (36，48)

(　　)

(　　)

⑩ (16，24，40)

(　　)

チェック! 何問できたかな? →

0問〜5問 がんばろうね

6問〜8問 あとちょっと

9問〜10問 やったね!

月　日

2 7. 倍数と約数

114〜115

名前

1問10点

学5・Ⅱ

◆ 偶数（ぐうすう）には○，奇数（きすう）には△を書きましょう。

① 5 （　　）　② 8 （　　）

③ 14 （　　）　④ 27 （　　）

⑤ 61 （　　）　⑥ 90 （　　）

⑦ 103 （　　）　⑧ 372 （　　）

◆ 次の数を偶数と奇数に分けましょう。

0	6	13	28	45	54
77	82	91	114	249	463

⑨ 偶数 （　　）

⑩ 奇数 （　　）

チェック! 何問できたかな? →

0問〜5問 がんばろうね

6問〜8問 あとちょっと

9問〜10問 やったね!

月　日

3 7. 倍数と約数

99〜112

名前

1問25点

◆ 問題に答えましょう。

① ある駅を，東町行きのバスは10分おきに，西町行きのバスは15分おきに発車しています。午前8時に2つのバスが同時に出発しました。次に同時に出発するのは何時何分ですか。

（　　）

② たて9cm，横15cmの長方形の紙を，同じ向きにすき間がないようにしきつめて正方形を作ります。いちばん小さい正方形の1辺の長さは何cmですか。

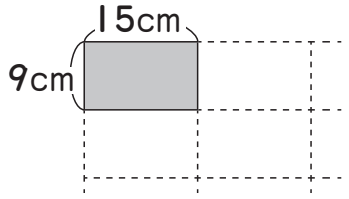

（　　）

③ あめ20個とクッキー24個を，それぞれ同じ数ずつ，何まいかの皿に，あまりなくのせようと思います。皿の数が何まいだったら，うまくのせることができますか。全部求めましょう。

（　　）

④ たて27cm，横36cmの方眼紙があります。この方眼紙から同じ大きさの正方形を，むだのないように切り取っていきます。いちばん大きい正方形の1辺の長さは何cmですか。

（　　）

チェック！何問できたかな？ → 0問〜1問 がんばろうね　2問〜3問 あとちょっと　4問 やったね！

月　日

4 8. 分数のたし算とひき算

127 ～ 129

名前

1問10点

◆ たし算をしましょう。

① $\frac{1}{3}+\frac{1}{5}$

② $\frac{5}{9}+\frac{3}{4}$

③ $\frac{1}{6}+\frac{1}{10}$

④ $\frac{5}{12}+\frac{14}{15}$

⑤ $\frac{1}{3}+1\frac{1}{4}$

⑥ $1\frac{2}{7}+\frac{3}{14}$

⑦ $1\frac{1}{2}+1\frac{2}{5}$

⑧ $2\frac{1}{12}+2\frac{3}{4}$

⑨ $1\frac{2}{3}+1\frac{2}{5}$

⑩ $2\frac{5}{6}+\frac{3}{10}$

チェック! 何問できたかな? →

0問～5問 がんばろうね

6問～8問 あとちょっと

9問～10問 やったね!

月　日

5 8. 分数のたし算とひき算

130 ～ 133

名前

1問10点

◆ 計算をしましょう。

① $\frac{1}{2}-\frac{2}{5}$

② $\frac{1}{2}-\frac{5}{18}$

③ $\frac{5}{4}-\frac{2}{3}$

④ $\frac{4}{3}-\frac{9}{8}$

⑤ $\frac{5}{6}+\frac{1}{4}-\frac{2}{3}$

⑥ $\frac{7}{8}-\frac{3}{10}-\frac{2}{5}$

⑦ $1\frac{1}{3}-\frac{1}{4}$

⑧ $2\frac{3}{5}-\frac{6}{7}$

⑨ $2\frac{1}{2}-1\frac{2}{5}$

⑩ $4\frac{1}{3}-1\frac{5}{7}$

チェック! 何問できたかな?

0問～5問 がんばろうね

6問～8問 あとちょっと

9問～10問 やったね!

月　日

6 8. 分数のたし算とひき算

127〜133

名前

1問25点

学5・Ⅱ

◆ 問題に答えましょう。

① 牛にゅうを$\frac{1}{4}$L飲んだら，残りが$\frac{3}{5}$Lになりました。はじめに，牛にゅうは何Lありましたか。

(式)

答え（　　）

② $2\frac{4}{5}$kgのりんごを，$1\frac{7}{10}$kgの箱に入れます。全部で何kgになりますか。

(式)

答え（　　）

③ オレンジジュースが$\frac{5}{6}$L，グレープジュースが$\frac{7}{8}$Lあります。どちらのジュースが何L多いですか。

(式)

答え（　　）

④ つよしさんは，家から駅までの道のり$2\frac{1}{4}$kmのうち，$1\frac{3}{10}$kmを歩きました。残りの道のりは何kmですか。

(式)

答え（　　）

チェック! 何問できたかな?

0問〜1問 がんばろうね

2問〜3問 あとちょっと

4問 やったね!

月　日

7 9. 分数と小数・整数

136〜139

名前

1問10点

学5・Ⅱ

◆　商を分数で表しましょう。

① 1÷4

② 3÷5

③ 2÷7

④ 4÷13

⑤ 8÷3

⑥ 7÷6

⑦ 14÷9

⑧ 19÷8

◆　長さが6mの赤のリボンと，長さが5mの青のリボンがあります。次の問題に，分数で答えましょう。

⑨ 赤のリボンの長さは，青のリボンの長さの何倍ですか。

⑩ 青のリボンの長さは，赤のリボンの長さの何倍ですか。

チェック！何問できたかな？ ➡ 0問〜5問 がんばろうね　6問〜8問 あとちょっと　9問〜10問 やったね！

月　日

8 9. 分数と小数・整数

140 ～ 141

名前

1問10点

学5・Ⅱ

◆ 分数を，小数や整数で表しましょう。

① $\frac{4}{5}$　　② $\frac{9}{10}$　　③ $\frac{12}{6}$

（　　）　（　　）　（　　）

④ $1\frac{1}{5}$　　⑤ $3\frac{7}{20}$

（　　）　（　　）

◆ 小数を分数で表しましょう。

⑥ 0.7　　⑦ 0.13　　⑧ 1.1

（　　）　（　　）　（　　）

◆ 整数を分数で表します。□にあてはまる数を書きましょう。

⑨ $4=4\div1=\frac{\square}{1}$　　⑩ $8=16\div\square=\frac{16}{\square}$

チェック！何問できたかな？

0問～5問 がんばろうね

6問～8問 あとちょっと

9問～10問 やったね！

月　日

9 10. 体　積

147〜152

名前

1問20点

学5・Ⅱ

◆　次の直方体と立方体の体積（たいせき）を求めましょう。

①

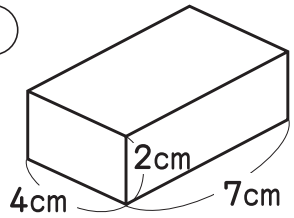

（　　）

②

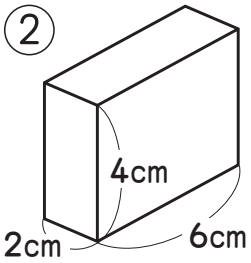

（　　）

③

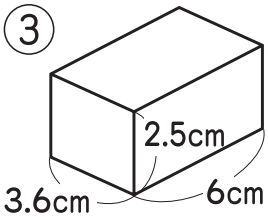

（　　）

④

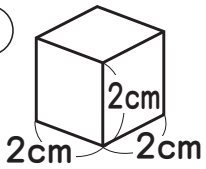

（　　）

⑤

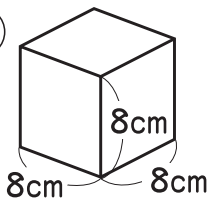

（　　）

チェック！何問できたかな？

0問〜2問　がんばろうね

3問〜4問　あとちょっと

5問　やったね！

月　日

10 10. 体　積

157〜158

名前

1問25点

学5・Ⅱ

◆　次の図のような形の体積（たいせき）を求めましょう。

①

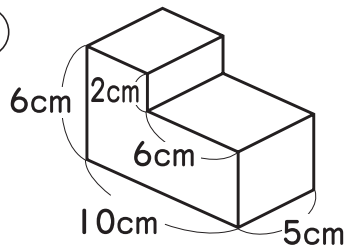

（　　）

②

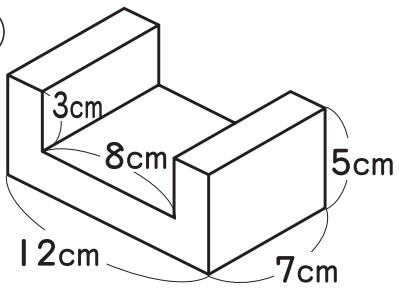

（　　）

③

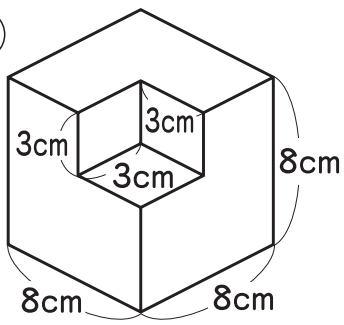

（　　）

④

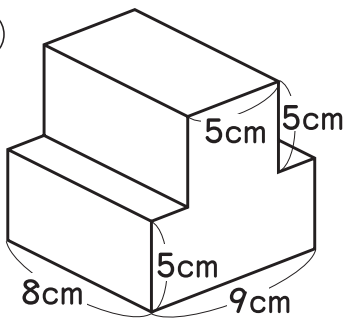

（　　）

チェック！何問できたかな？

0問〜1問　がんばろうね

2問〜3問　あとちょっと

4問　やったね！

●計算ドリル34～35のたしかめ

月　日

11 ★ 速　さ

補2～5

名前

1問25点

学5・Ⅱ

1 速さを求めましょう。

① 12分間に780m歩く人の分速（ふんそく）

（　　）

② 210mを15秒で走るキリンの秒速（びょうそく）

（　　）

2 どちらが速いですか。㋐，㋑で答えましょう。

① ㋐ 時速（じそく）39.3kmで走る自動車
㋑ 分速650mで走るオートバイ

（　　）

② ㋐ 分速78mで歩く人
㋑ 秒速1.4mで歩く人

（　　）

チェック！何問できたかな？ → 0問～1問 がんばろうね　2問～3問 あとちょっと　4問 やったね！

月　日

12 ★ 速　さ

補6

名前

1問20点

学5・Ⅱ

1 道のりを求めましょう。

① 時速72kmで走る自動車が，4時間に進む道のり

（　　）

② 分速58mで歩く人が，15分間に進む道のり

（　　）

③ 秒速3mで走る人が，45秒間に走る道のり

（　　）

2 時間を求めましょう。

① 時速95kmで570km進むのにかかる時間

（　　）

② 分速60mで960m進むのにかかる時間

（　　）

チェック！何問できたかな？



月　日

13 12. 図形の面積

179 ～ 189

名前

1問20点

学5・Ⅱ

◆ 次の平行四辺形の面積を求めましょう。

①

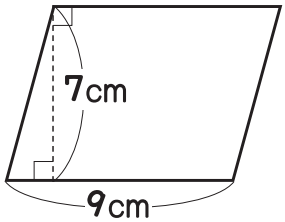

（　　）

②

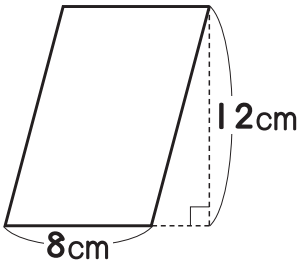

（　　）

◆ 次の平行四辺形の底辺（ていへん）の長さは何cmですか。

③

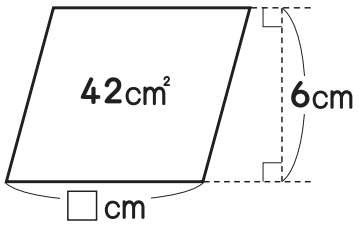

（　　）

◆ 次の三角形の面積を求めましょう。

④

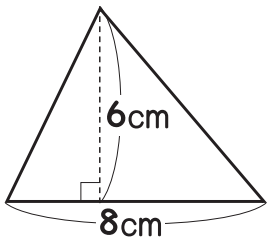

（　　）

⑤

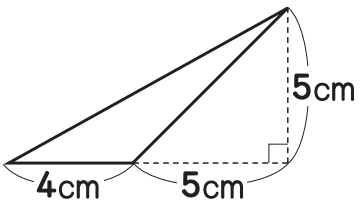

（　　）

チェック！ 何問できたかな？

0問～2問 がんばろうね

3問～4問 あとちょっと

5問 やったね！

●計算ドリル 40 ～ 41 のたしかめ

月　日

14 12. 図形の面積

191 ～ 197

名前

1問20点

学5・Ⅱ

◆ 次の台形やひし形，対角線（たいかくせん）が垂直（すいちょく）に交わっている四角形の面積を求めましょう。

①

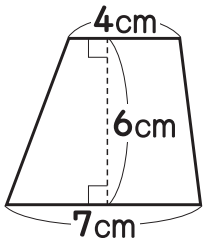

②

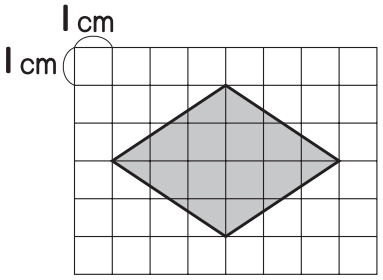

（　　）　（　　）

③

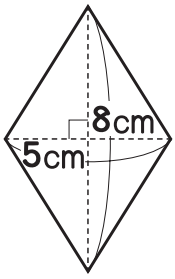

④

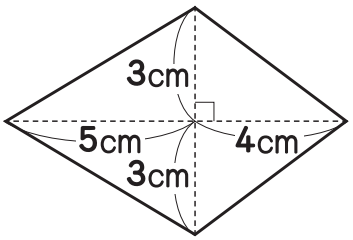

（　　）　（　　）

◆ 次の四角形の面積を求めましょう。

⑤

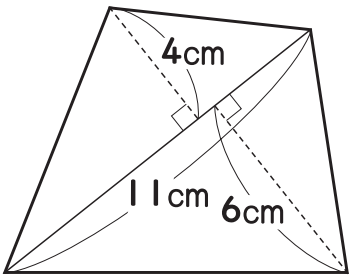

（　　）

チェック！ 何問できたかな？

0問～2問 がんばろうね

3問～4問 あとちょっと

5問 やったね！

月　日

15 13. 比　例

205〜206

名前

1問25点

学5・Ⅱ

◆ **たてが4cm，横が3cmの長方形がたくさんあります。それらを，下のようにつなげながら，大きな長方形を作り，それぞれの面積を求めます。**

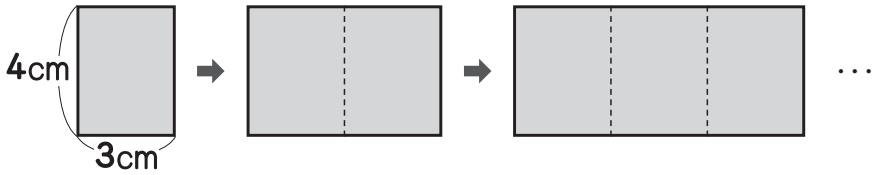

① 長方形の面積を求める公式を書きます。□にあてはまることばを書きましょう。

長方形の面積＝ □ **×** □

② ①の公式のうち，ともなって変わっているものは何と何ですか。また，変わらないものは何ですか。

▶変わっているもの（　　）

▶変わらないもの　（　　）

③ 横の長さを□cm，面積を○cm²として，面積を求める式を書きましょう。

（　　）

④ 長方形の面積は横の長さに比例（ひれい）するといえますか。

（　　）

チェック！何問できたかな？ ➡

0問〜1問 がんばろうね

2問〜3問 あとちょっと

4問 やったね！